第９講・オセアニア州

オセアニア州（自然環境）

ポイント１　特徴と地形

＿＿＿にあてはまる語句を確認しましょう。

①　オセアニア州の特徴

オーストラリア大陸と

太平洋に広がる島々で構成

資料1　世界の人口と面積



（「日本国勢図会」2020/21年版より作成）

②　オセアニア州の地形

さんご礁（しょう）：さんご虫の死がいなどが固まったもの

海の上まで積み重なって島がつくられる

火山島　：火山の噴火（ふんか）でできた島

資料3　火山によってできた島

資料4　さんご礁によってできた島



資料2　オセアニア州

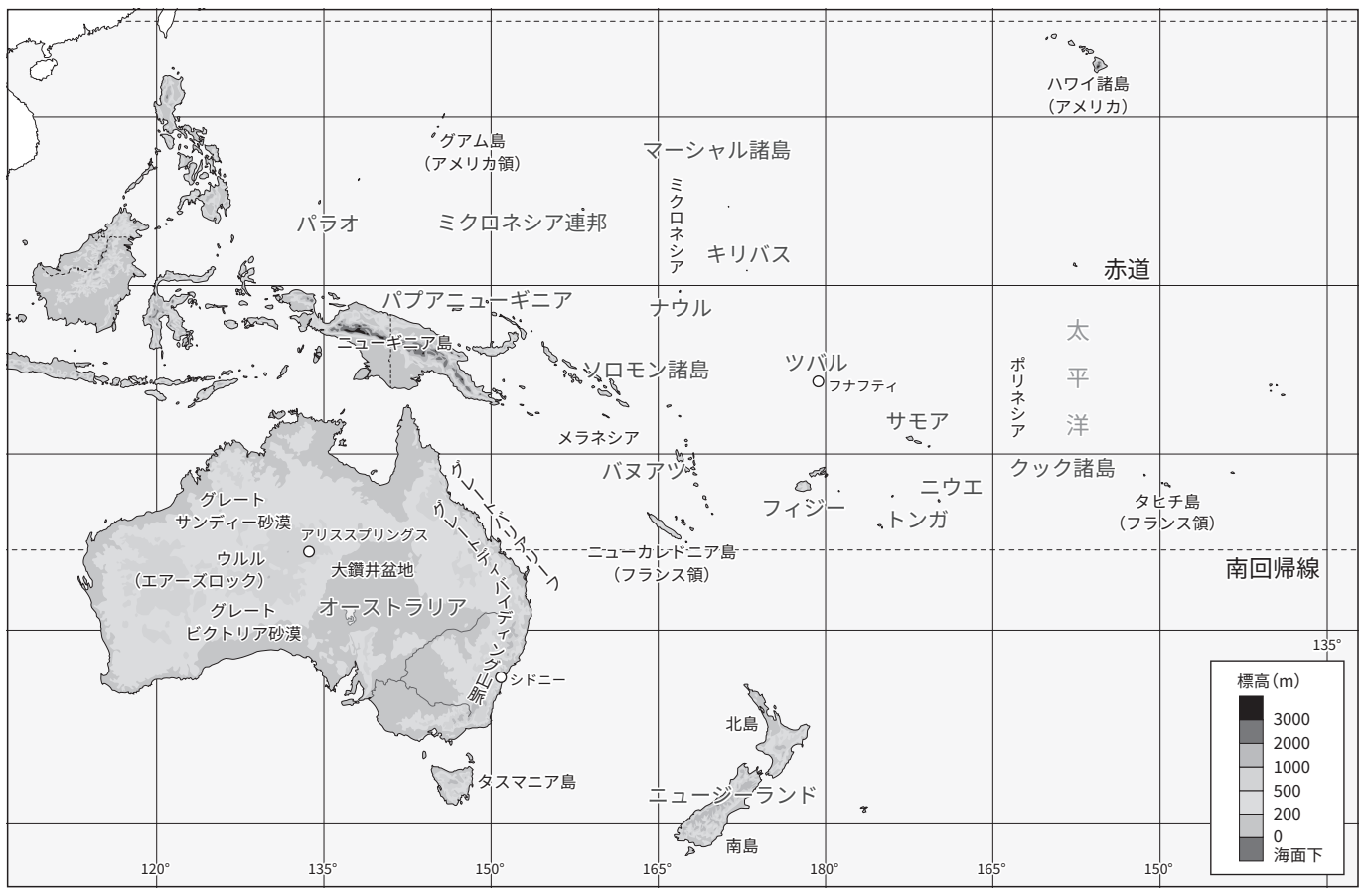

※細かな色分けは動画で確認しましょう

ポイント2 気候

＿＿にあてはまる語句を確認しましょう。

寒帯，冷帯（亜寒帯）はなし

乾燥帯	オーストラリア大陸内陸部
熱帯	オーストラリア大陸北部， 赤道付近の島々
温帯	オーストラリア大陸東部，南東部，南西部， ニュージーランド

資料5 雨温図

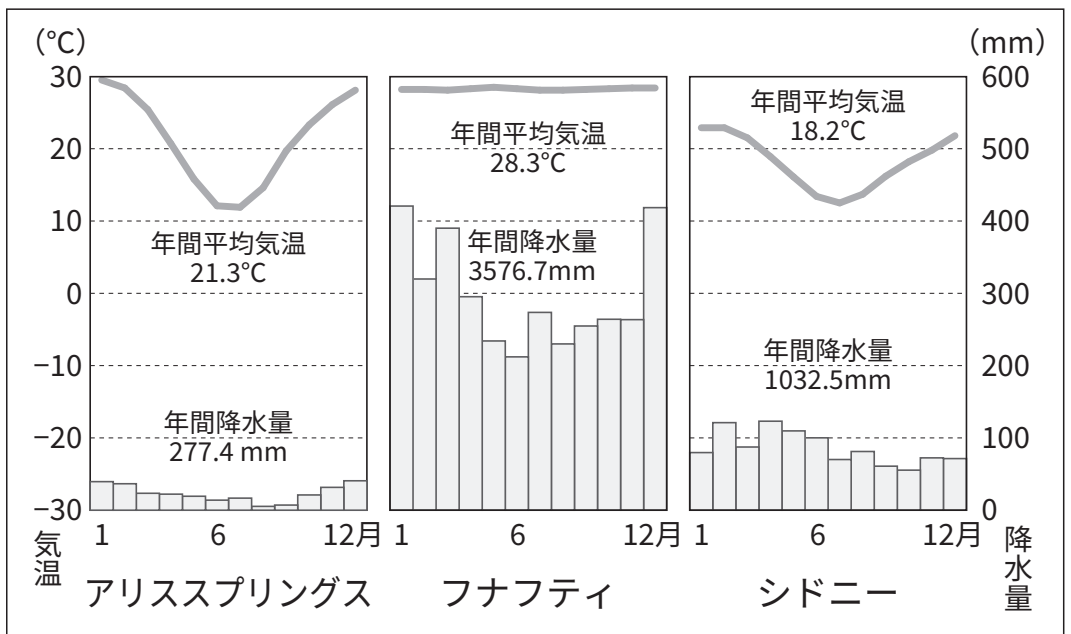

（「理科年表」令和2年版より作成）

確認テスト

次の問いに答えなさい。

(1) オーストラリア大陸内陸部の多くを占める気候帯は何か。　＿＿＿＿＿　**乾燥帯**

(2) さんご虫の死がいなどが固まったもので，海の上まで積み重なって島がつくられるものは何か。　＿＿＿＿＿　**さんご礁**

(3) オーストラリアの南東に位置し北島と南島に分かれている国はどこか。　＿＿＿＿＿　**ニュージーランド**

(4) オセアニア州の島々が位置するのは三大洋のうちどれか。　＿＿＿＿＿　**太平洋**